# BİRİM KESİR

Şekilleri ve kesir sayılarını inceleyerek noktalı yerleri doldurunuz.

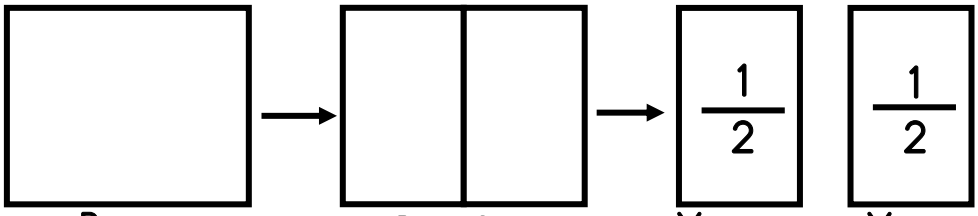


Bütün — Bütün 2 eş parçaya bölünmüş — Yarım — Yarım

Bir bütünde 2 tane $\frac{1}{2}$ vardır.

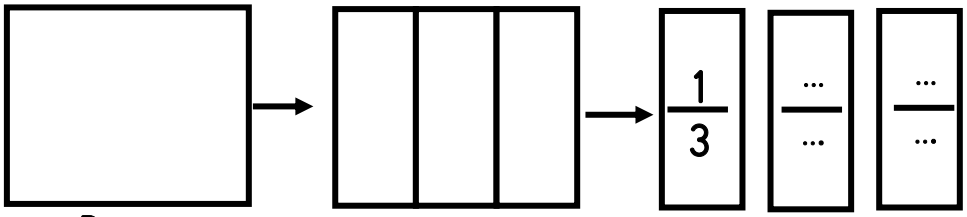


Bütün — Bütün 3 eş parçaya bölünmüş

Bir bütünde ..... tane $\frac{1}{3}$ vardır.

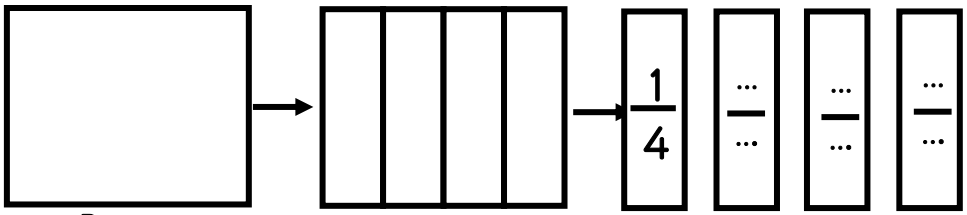


Bütün — Bütün 4 eş parçaya bölünmüş

Bir bütünde ..... tane $\frac{1}{4}$ vardır.

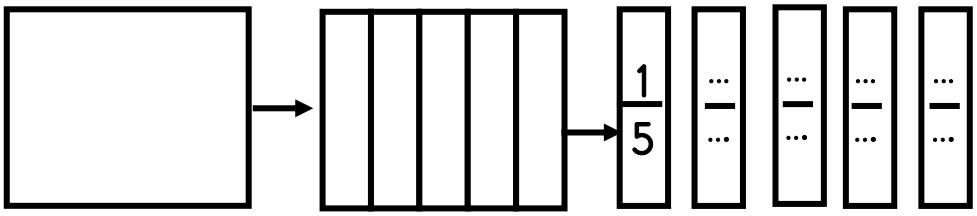


Bütün — Bütün 5 eş parçaya bölünmüş

Bir bütünde ..... tane $\frac{1}{...}$ vardır.

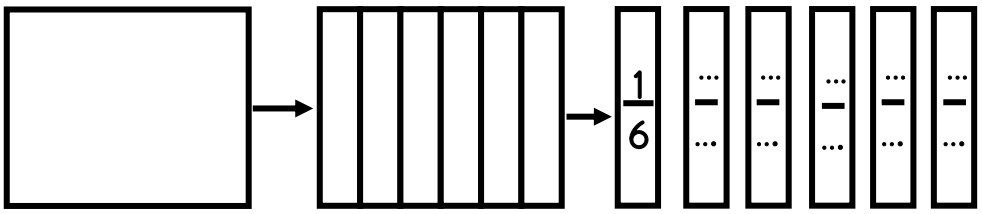


Bütün — Bütün 6 eş parçaya bölünmüş

Bir bütünde ..... tane $\frac{...}{...}$ vardır.

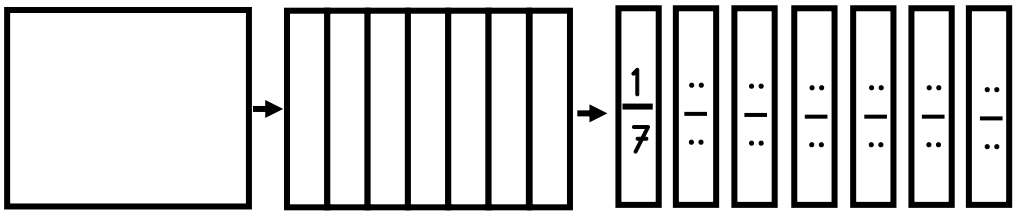


Bütün — Bütün 7 eş parçaya bölünmüş

Bir bütünde ..... tane $\frac{...}{...}$ vardır.